Objectifs

Distinguer les deux types de circuits électriques (en série et en dérivation).

Bilan — Boucle dans un circuit électrique



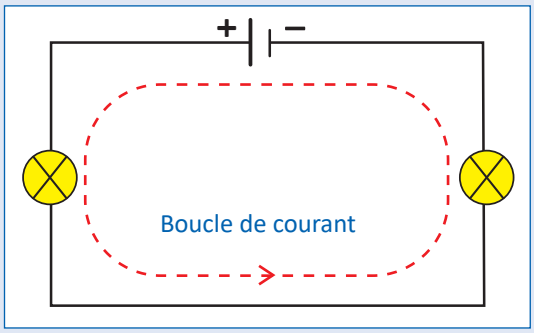

- ..... est un chemin fermé dans un circuit électrique.
- Un **circuit** électrique **simple** forme ..... .

Bilan — Circuit électrique en série et en dérivation

Types de circuits

Circuit en ..... .

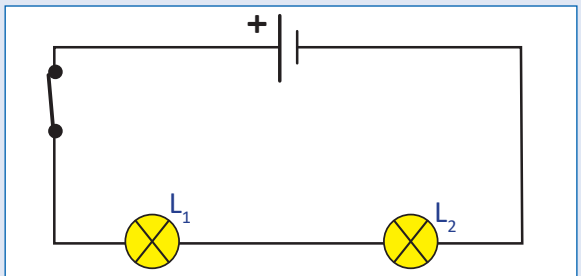

- Le circuit est constitué d'une seule .....
- Je ne peux pas allumer une lampe sans allumer .....

Circuit en ..... .

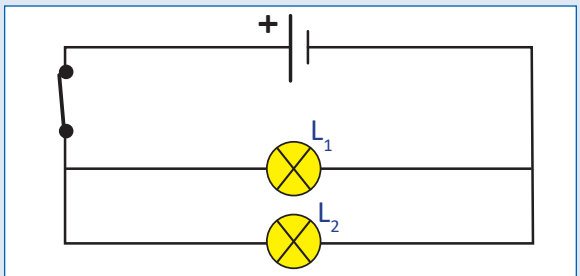

- Le circuit est constitué de .....
- Je peux allumer la lampe L_1 sans allumer .....

Exemples :

Une guirlande

Les phares d'une voiture